ТИТУЛЬНЫЙ ЛИСТ

РЕГИОНАЛЬНЫЙ ЭТАП ВСЕРОССИЙСКОЙ ОЛИМПИАДЫ ШКОЛЬНИКОВ
КИРОВСКАЯ ОБЛАСТЬ

Заполнять ЗАГЛАВНЫМИ ПЕЧАТНЫМИ БУКВАМИ по образцам

А	Б	В	Г	Д	Е	Ё	Ж	З	И	Й	К	Л	М	Н	О	П	Р	С	Т	У	Ф	Х	Ц	Ч	Ш	Щ	Ъ	Ь	Э	Ю	Я	1	2	3	4	5	6	7	8	9	0	,	-

1. Заполните поля «фамилия», «инициалы», «класс» на титульном листе, если они не заполнены. Заполните поле «класс» на всех листах работы, если оно не заполнено.

ШИФР КОМПЛЕКТА: 9-38

ПРЕДМЕТ: история

ДАТА ПРОВЕДЕНИЯ (ДД.ММ.ГГГГ.): 25.01.2017

ФАМИЛИЯ: ЗОНОВ

ИНИЦИАЛЫ: Р. В.

КЛАСС: 9Б

2. По окончании работы пронумеруйте СТРАНИЦЫ (титульный лист не считать) и укажите общее количество использованных страниц.

ОБЩЕЕ КОЛИЧЕСТВО СТРАНИЦ:

РЕЗУЛЬТАТЫ ВЫПОЛНЕНИЯ ЗАДАНИЙ В УКАЗАННУЮ ДАТУ ПРОВЕДЕНИЯ (заполняется жюри)

Сумма баллов
53

Председатель жюри:

Информация об участнике Регионального этапа Всероссийской олимпиады школьников по истории 2017
9 класс

9-38

Фамилия

Имя

Отчество

Школа

Класс

Шифр (заполняется членами Оргкомитета)

1	2	3	4	5	6	7	8	9	10	11	12	13	итог	подпись
3	4	5	6	7	1,5	5	5	2	6,5	5	0	2	52	

9 класс. ПЕРВЫЙ ТУР.

Максимальная оценка – 100 баллов. Время на подготовку – 3 часа.

1. [7 баллов]

Верно ли, что:

1. Владимир Святой захватил власть в Киеве, опираясь на помощь варягов?
2. Владимир Святой никогда не посещал европейские государства?
3. Старший сын Владимира Святого умер при жизни отца?
4. После вокняжения в Киеве Владимира Святого последовали гонения на христиан?
5. Владимир Святой первым из русских князей установил контакты с Англией?
6. В правление Владимира Святого Русь посетил миссионер Бруно Кверфуртский?
7. При Владимире Святом началась чеканка первых русских монет?
8. Владимир Святой был похоронен в Софии Киевской?
9. Канонизация Владимира Святого произошла при Владимире Мономахе?
10. Мощи Владимира Святого были обретены Петром Могилой?
11. Киевский университет до революции носил имя Владимира Святого?
12. Владимир Святой почитается как православными, так и католиками?
13. Памятник Владимиру Святому является старейшим скульптурным памятником Киева?

ВЕРНО	НЕВЕРНО
1, 3, 6, 8, 9, 11	2, 4, 5, 7, 10, 12, 13

2. [8 баллов]

Заполните пробелы в тексте. Ответ оформите в виде перечня элементов под соответствующими номерами.

На время княжения (1 – имя князя) (2 - даты княжения) приходится успешная война с Волжской Булгарией. В честь одержанной победы по его приказанию неподалеку от его княжеской резиденции (3 - название резиденции) была воздвигнута замечательная церковь (4 - название церкви). Этот князь стремился овладеть и великокняжеским престолом, и Новгородом. Его войска взяли (5 - название города) и учинили там страшный разгром. Однако, в отличие от своего отца (6 - имя князя), он ставил своей главной целью укрепление собственного (7 – название княжества) княжества. Развернутое при нем активное каменное строительство также призвано было подчеркнуть его могущество. В годы его княжения в новой столице княжества (8 - название города) по примеру Киева были построены (9 - название архитектурного памятника) и (10 - название собора) собор. В результате заговора он был убит своими приближенными. В борьбе за власть между его младшими братьями победил (11 - имя князя) по прозвищу (12 - прозвище). Этот князь завещал престол не старшему своему сыну, а второму – (13 - имя князя). Этому князю было суждено погибнуть в битве с монголами на реке (14 - название реки) в (15 - год).

1) Андрей Боголюбский +
2)
3)
4) Покрова на Нерли +
5)
6) Юрий Долгорукий +
7) Владимиро-Суздальского +
8) Владимир +
9) Золотые ворота +
10) Софийский Собор -
11) Всеволод +
12) Большое Гнездо +
13) Всеволод -
14) Калка -
15) 1221 -

3. [5 баллов]

Распределите потомков князя Дмитрия Донского, имена которых приведены ниже, по поколениям (впишите буквы, соответствующие правильным ответам):

Сыновья е, з + +
Внуки а, б, и + + +
Правнуки ж +
Праправнуки к +
Прапраправнуки ~~Иван IV~~, в, г, д. + +

а) Василий II
б) Василий Косой
в) Иван IV
г) Владимир Старицкий
д) Андрей Старицкий
е) Василий I
ж) Иван III
з) Юрий Звенигородский
и) Дмитрий Шемяка
к) Василий III

4. [7 баллов]

Перед Вами – отрывки из исторических источников, повествующих о пожарах Москвы. Соотнесите фрагменты с предложенными датами. Дайте обоснование датировки ссылками на текст источников. Ответ оформите в виде таблицы. **Ответы без обоснования оцениваться не будут!** Обратите внимание, две даты в предложенной таблице – лишние.

Фрагмент № 1. 24-го мая, в день Вознесения, татары из Крыма совершенно сожгли главный город московита Москву; в этом пожаре сгорели более 40000 домов, господских усадеб и жилищ со всеми церквами и амбарами, и погибло около трехсот тысяч человек, старых и молодых. Этот пожар продолжался всего только три часа. Потому что татары пришли в 8 часов утра с 40000 человек и зажгли город, а в 11 уже все сгорело до тла. Тут московиту было отплачено за все, что он сделал с бедной Ливонией и Финляндией прошлою зимою.

Фрагмент №2. Солдаты десятками бегали в город, выхватывали из горящих русских домов всякие жизненные припасы, напитки, одежду, возвращались с этой добычей в лагерь и делились даже с офицерами, которые были всему этому очень рады… В таком положении пробыли мы до третьего дня, когда наконец были снаряжены команды под начальством офицеров и охраной Старой гвардии, чтобы идти в город и взять оттуда одежды и припасов. Там, проходя мимо погребов, можно было видеть там пьяных солдат, которые с бутылками в руках кричали проходящим: «Сюда, товарищ!»

Фрагмент №3. Седмочисленыя же боляре Московъския державы и всю власть Русьския земли предаша в руце литовъских воеводъ. Того же лета, марта въ 19, излияся фиалъ горести, царствующему граду Москве разорение. Падоша тогда высокозъдании домове, иже красотами блистающиися, огнем поядошася, и вси мудроверхия церкви, яже преже божественою славою сиающе, скверными рукама до конца разоришася. И множество христиансково народа мечемъ плеча литовскаго разсекошася, а инии от домовъ своихъ и от града скокомъ бежаша, понеже спастися желаху. И тако литовския люди обладаша Москвою два лета и 5 месяць бедно же, поне и русьския люди не отступиша и убивающе многихъ.

Фрагмент №4. И отвориша врата градная, и выйдошя съ своимъ княземь и с дары многими к царю… И в томъ часе начашя татарове сечи их по ряду напрасно. Преже всех их убиенъ бысть князь Остей пред градом, и потом начаша сечи попов и игуменов, аще и в ризах съ кресты, и черных люди.<…> И бяше дотоле, преже видети, была Москва град

великъ, град чюденъ, градъ многочеловеченъ. И ныне видети его нечего, разве токмо земля, и персть, и прах, и пепел. <…> Тогда же бысть сущу Киприану митрополиту на Тфери, и тамо избывшу ему ратнаго нахожениа, и приеха на Москву октября 7.

Фрагмент №5. И так как народ все еще был в большом страхе, вспоминая о недавнем нашествии татар, то Борис приказывал поджигать Москву в разных местах, и сгорело более 200 домов, и все поджигатели были подкуплены Борисом; таким образом, он снова навел страх на всю страну; сверх того, он послал воеводами в пограничные города несколько человек, которые лживо писали, что крымский хан с большим войском снова готовится вторгнуться в страну, и посылали письма с такими вестями в Москву, так что повергли всю страну в такой страх, что народ забыл обо всех делах и забыл о смерти или убиении Димитрия.

Фрагмент №6. В коллегии, канцелярии и конторы к описям после случившегося на Троицу пожара определить людей добрых, кого Сенатская контора заблагорассудит. После пожара на тех местах, где денежная казна стояла и прочие медали и погорели, сыскивать слитков серебра, меди и медали, и отдавать на Монетный двор<…>, о том к тайному советнику и кавалеру графу Михаилу Гавриловичу Головкину послать указ. О судьбе колокола Моториных особое розыскание надлежит произвести. В Артиллерийскую Контору подтвердить указом, чтоб в Москве в городе пороха отнюдь не держали ни чьего.

Фрагмент №7. Июня 21 во вторник загореся храм Воздвижение честнаго Креста за Неглимною на Арбатской… А митрополита Макария едва вызвавша из церкви, великаго для попущения Божия дымнаго духа едва не подзадохся… А стоял царь князь великий в своем селе в Воробьеве и з своею царицею з великою княгинею Анастасиею. Того же месяца 26 на пятый день после пожару черные люди града Москвы всколебашася и убиша камением царева великого князя болярина князя Юрья Васильевича Глинского.

	Дата	Номер фрагмента	Основания для датировки
+	1382	4	Сожжение Москвы Тохтамышем в период правления Димитрия Донского
−	1408	3	Сожжение Литовцами Москвы.
+	1547	7	Глинские находились у власти в период детства Ивана IV,
+	1571	1	„Сделано с Ливонией" — Ливонская война, шедшая при Иване Грозном.
+	1591	~~4~~ 5	„~~Все забы~~ „Все забыли про смерть Царевича" — Царевич Димитрий был убит на задолго до 1591 г.
	1611		
	1714		
+	1737	6	Головкин жил в этот период
+	1812	2	Упоминание „Старой гвардии" Наполеона.

5. [9 баллов]

Перед Вами карта Российской империи, на которой обозначены и пронумерованы 9 городов, которые вошли в состав России или были основаны уже в составе России в XVI – XIX вв. Все эти города и сейчас находятся в составе Российской Федерации и являются либо центрами субъектов федерации, либо городами федерального значения. Применительно к каждому из них Вам нужно определить, что это за город и соотнести его

с хронологическим периодом, в который он был основан или включен в состав России. При этом учтите, что имеется в виду дата его окончательного вхождения в состав России **вплоть до 1917 года**. Ответ оформите в виде таблицы.

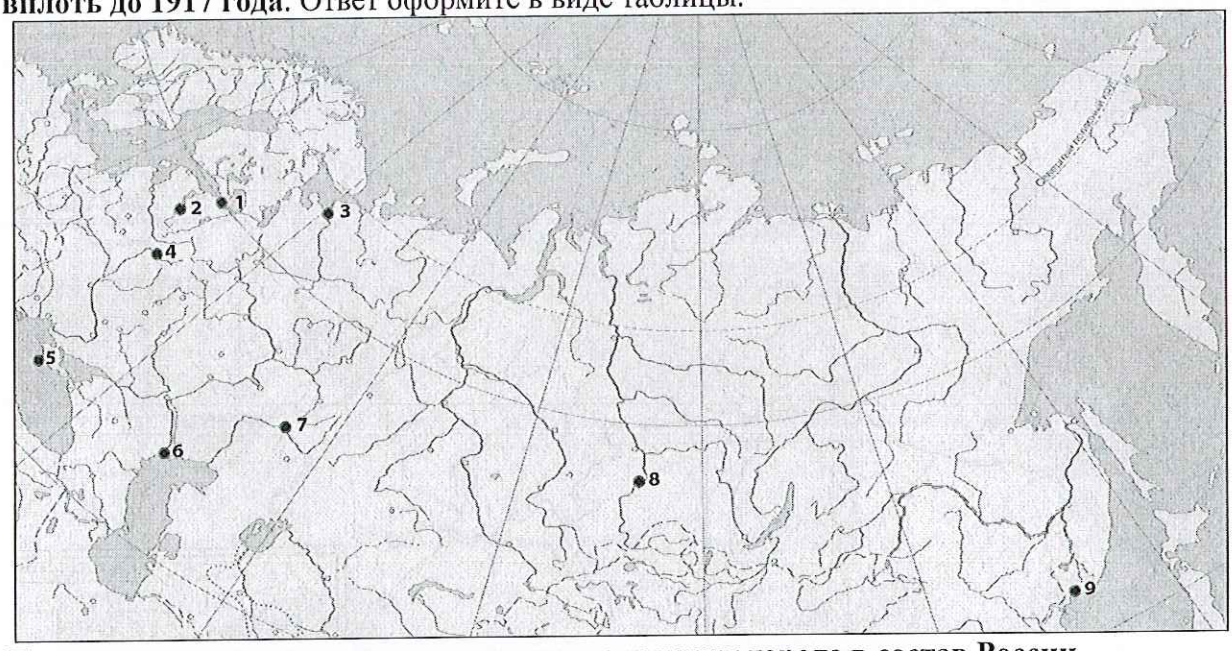

Период основания или окончательного включения города в состав России.

А. 1500 – 1550

Б. 1550 – 1570

В. 1570 – 1600

Г.1600 – 1650

Д. 1650 – 1700

Е. 1700 – 1725

Ж. 1725 – 1750

З. 1750 – 1800

И. 1850 – 1875

Номер города на карте	Период основания или окончательного включения города в состав России (буква)	Название города
1.	Е	Санкт-Петербург
2.	А	Псков
3.	В	Архангельск
4.	Д	Смоленск
5.	З	Севастополь
6.	Б	Астрахань
7.	Г	Оренбург
8.	Ж	Новосибирск
9.	И	Владивосток

6. [9 баллов]

Перед Вами изображения событий одной из войн и медалей, отчеканенных в честь данных событий. Определите, о какой войне идет речь, назовите каждое из событий, дайте точную

(до года) датировку и соотнесите с медалью. Свой ответ оформите в виде таблицы, расположив события в хронологической последовательности.

А. 

Б.

В.

Г.



Д.

Е.



Ж.



1.

2.

3.

4.

5.

6.

7.

Название войны Северная война +

События (в хронологической последовательности)	Дата (год)	Изображение события (буква)	Медаль (цифра)
Взятие Нарвы	1701	Г	1
Полтавская битва	1705	В	3
Основание Петербурга	1703	Ж	2
Гангутское сражение	1712	Б	4

0,5 + 1 + 1 =

7. [8 баллов]

В XVIII веке Россия неоднократно воевала с Османской империей. Ваша задача соотнести в таблице событие или факт и войну, к которой он относится, и поставить знак «+» в соответствующей графе таблицы. Некоторые факты могут относиться к нескольким войнам одновременно.

Факт	Прутский поход	Война 1735-39	Война 1768-74	Война 1787-91
В ходе военных действий был взят Хотин		+ +		
Русские войска действовали в союзе с царями Имеретии и Картли-Кахетии			+ +	
Основным союзником в войне выступила Молдавия				+
Русские войска действовали на территории Крыма	+	+ +	+ +	
В ходе военных действий был взят Очаков			+	

По итогам войны, России запрещалось иметь свой военный флот в Чёрном море				
Русские войска действовали в союзе со Священной Римской империей		+ +		
Основные силы русской армии не дошли до Дуная	+ +			
Русский флот нанес серьезные поражения турецкому в нескольких морских сражениях			+ +	+ +
Россия добровольно отказалась от получения контрибуции с Турции				+

8. [8 баллов]

Перед Вами фрагмент из воспоминаний замечательного русского художника Константина Алексеевича Коровина об одном из его близких друзей. Ознакомьтесь с текстом, определите, о ком именно идет речь, и **выберите из** предложенных Вам **портретов деятелей культуры только те**, на которых изображены **современники К.А. Коровина** и того, о ком идет речь в тексте. Под выбранными Вами портретами современников прямо в таблице сделайте подписи, кто на них изображен.

«Я всегда поражался его удивительному постижению каждого создаваемого образа… Он никогда не говорил заранее даже друзьям, как он будет петь и играть ту или иную роль. На репетициях никогда не играл, пел вполголоса, а иногда и пропускал отдельные места. И уже только на сцене потрясал зрителя новым гениальным воплощением и мощным тембром своего единственного голоса… Однажды, когда я удивлялся его исполнению, он мне сказал: «Я не знаю, в чём дело. Просто, когда пою Варлаама, я ощущаю, что я Варлаам, когда Фарлафа, что я Фарлаф, когда Дон Кихота, что я Дон Кихот. Я просто забываю себя. Вот и всё. … Музыку надо чувствовать!.. Ты знаешь ли, я даже забываю, что пою перед публикой. Никакой тут тайны нет. Хотя. Пожалуй, некоторая и есть: нужно любить и верить в то, что делаешь. В то нечто, что и есть искусство… Я не был в консерватории, пел с бродячими певчими, ходил по селам… Артиста сделать нельзя - он сам делается. Я никогда не думал, что буду артистом. Это как-то само собой вышло».

О ком идет речь в тексте? Ф. И. Шаляпин +



9. [8 баллов]

Перед Вами таблица, которая показывает, сколько в среднем зарабатывала крестьянская семья денег в год, и как распределялись эти заработки по источникам дохода. Изучите данные таблицы и ответьте на вопросы.

Таблица. Основные источники доходов крестьянского хозяйства в Вологодской губернии в начала XX века.

Категории хозяйств по площади посева		Земледелие	Животно-водство	Промыслы	Луговодство	Всего
Без посева	Объем дохода (руб):	3	10,6	87,5	7,8	108,9
	Доля в общем доходе (%)	*2,8*	*9,7*	*80,3*	*7,2*	*100*
До 3 дес.	Объем дохода (руб):	136,7	94,9	126,8	66,9	425,3
	Доля в общем доходе (%)	*32,1*	*22,3*	*29,8*	*15,8*	*100*
От 3 до 6 дес.	Объем дохода (руб):	237,9	147,6	152,1	101,6	639,2

	Доля в общем доходе (%)	*37,2*	*23,1*	*23,8*	*15,9*	*100*
Более 6 дес.	Объем дохода (руб):	305,3	159	115,7	98,8	678,8
	Доля в общем доходе (%)	*45*	*23,5*	*17,1*	*14,4*	*100*
В среднем	Объем дохода (руб):	170,5	110,9	132,5	76,7	490,6
	Доля в общем доходе (%)	*34,8*	*22,6*	*27*	*15,6*	*100*

1. Какие хозяйства были наиболее, а какие – наименее зажиточными?
Наиболее зажиточными были земледельческие хозяйства, а наименее луговодческие.

2. Можно ли сказать, что есть некая общая закономерность в структуре доходов, характерная для разных категорий крестьянских хозяйств? Поясните Ваш ответ.

3. Как связаны между собой 1) размер запашки и 2) размер и доля промыслов в структуре доходов крестьянских хозяйств разных категорий? Что это говорит о значении промыслов для крестьянских хозяйств разных категорий?
Чем большим числом десятин владеет крестьянин, тем больше он получает с земледелия и тем меньше с промыслов. +
В земледелии с плохой почвой будет лучше развиваться промысловое хозяйство +

4. Сделайте предположение о том, какой параметр крестьянского хозяйства, не указанный в данной таблице, имел наибольшее значение с точки зрения общего благосостояния крестьянского хозяйства?

10. [9 баллов]

Многие деятели революционного движения в нашей стране были широко известны как современникам, так и потомкам под вымышленными фамилиями (псевдонимами). Вам предлагаются факты из биографии (или личные характеристики) этих деятелей, а также список их настоящих фамилий и портреты. На основе предложенных материалов заполните таблицу.


1

2

3

А. «Был, несомненно, самым выдающимся рабочим, которого выдвинула большевистская партия, а пожалуй, и русская революция в целом... Годы каторжных работ и всяких других испытаний обнаружили в нём огромную силу физического и нравственного сопротивления. В течение ряда лет он стоял во главе советских профессиональных союзов, знал массу и умел говорить с ней на её языке». Псевдоним взял по названию одного из сибирских городов.

Б. «Неутомимость его в работе была беспримерна. Его мысль была одинаково напряжена в сибирской ссылке, в Британском музее или на заседании Совета Народных Комиссаров… Его образ жизни в Кремле мало отличался от его образа жизни в эмиграции. Простота обихода, воздержанность в отношении пищи, питья, одежды и всех вообще «благ» жизни вытекали у него не из каких-либо моралистических принципов, а из того факта, что умственная работа и напряженная борьба не только поглощали его интересы и страсти, но и давали ему то высшее удовлетворение, которое не оставляет места для суррогатов наслаждения».

В. «Энергия, воля и решимость сочетаются с эмпиризмом, близорукостью, органической склонностью к оппортунистическим решениям в больших вопросах, личной грубостью, нелояльностью и готовностью злоупотреблять властью для подавления партии».

Г. «Настоящая фамилия этого человека в сочетании с вопросами, которыми он занимался, становились иногда объектом определенных каламбуров. Ему, в свою очередь, приписывают интересное замечание: «Если у нас возле Иверской часовни на стене написано: «Религия — опиум для народа», то я бы предложил возле ВСНХ повесить вывеску: «Эмиссия — опиум для народного хозяйства».

Д. «Вся работа по практической организации восстания проходила под руководством председателя Петроградского Совета... Можно с уверенностью сказать, что быстрым переходом гарнизона на сторону Совета и умелой постановкой работы Военно-революционного комитета партия обязана, прежде всего, и главным образом, ему».

Е. «Человек выдающихся способностей и хладнокровно беспощадный... Что же касается руководства внешней политикой, то Сюлли, Талейран и Меттерних с радостью примут его в свою компанию, если только есть такой загробный мир, куда большевики разрешают себе доступ».

Ж. «Был одной из самых влиятельных фигур советского руководства во время последней болезни Ленина (1922 – 1923) и выступал с отчетным докладом ЦК на XII-м (1923) и XIII-

м (1924) партсъездах, как раньше Ленин. Он считался одним из ведущих теоретиков компартии как глава Коммунистического Интернационала».

З. «Главный оппонент В. И. Ленина на II съезде РСДРП… Захват власти большевиками воспринял отрицательно, протестовал против большевистского произвола, не мог примириться с «аракчеевским пониманием социализма и пугачевским пониманием классовой борьбы», дискредитирующими понятие социализма».

И. «Происхождение псевдонима носит случайный характер. История его появления описана в очерке Дзахо Гатуева «Мироныч». По свидетельству очевидца, псевдоним образован от одного из имен церковного календаря… Услышав это имя, он произнес: «Величайший полководец в подполье!»

Настоящая фамилия	Псевдоним	№ портрета	Текст (буква)	
Бриллиант	Красин	4	Г	0,5
Ефремов	Молотов	1	Е	—
Ульянов	Ленин	6	Б	+
Радомысльский	Зиновьев	2	Ж	+
Скрябин	Молотов Жу —			
Костриков	Куйбышев	8	И	+
Цедербаум	Мартов	5	З	+
Джугашвили	Сталин	7	В	+
Бронштейн	Троцкий	9	Д	+

11. [10 баллов]

Соотнесите название и информацию об ордене Великой Отечественной войны с его изображением. Ответ оформите в виде таблицы.

1. Орден Победы
2. Орден Отечественной войны
3. Орден Суворова
4. Орден Богдана Хмельницкого
5. Орден Ушакова
6. Орден Кутузова
7. Орден Нахимова
8. Орден Красной Звезды
9. Орден Александра Невского
10. Орден Славы

I. Учрежден в июле 1942 года (I и II степени), в феврале 1943 г. (III степень). Награждались командиры Красной Армии за хорошо разработанный и успешно осуществленный план операции.

II. Учрежден в марте 1944 года. Награждались офицеры Военно-Морского флота за выдающиеся успехи в разработке, проведении и обеспечении морских операций, в результате которых была отражена наступательная операция противника или обеспечены активные операции флота, нанесен противнику значительный урон и сохранены свои основные силы.

III. Высший военный орден. Учрежден в ноябре 1943 года. Награждались лица высшего командного состава за успешное проведение крупных боевых операций.

IV. Учрежден в мае 1942 года. Награждались лица рядового и начальствующего состава Красной Армии, ВМФ и партизанских отрядов.

V. Учрежден в июле 1942 года. Награждались офицеры и генералы Красной Армии за выдающиеся успехи в деле управления войсками.

VI. Учрежден в марте 1944 года. Награждались офицеры Военно-Морского флота за выдающиеся успехи в разработке, проведении и обеспечении морских активных

операций, в результате чего в боях за Родину была достигнута победа над численно превосходящим врагом.

VII. Учрежден в ноябре 1943 года. Награждались лица рядового и сержантского состава Красной Армии, а в авиации и лица, имеющие звание младшего лейтенанта, проявившие в боях за Советскую Родину славные подвиги храбрости, мужества и бесстрашия.

VIII. Учрежден в июле 1942 года. Награждались командиры Красной Армии за успешное руководство боевыми операциями. Изначально орден был учрежден в 1725 году Екатериной I для награждения за слуги перед Отечеством военных и гражданских лиц, в 1917 году орден был упразднен.

IX. Учрежден в октябре 1943 для награждения рядового, сержанстского состава, офицеров и генералов Красной Армии, ВМФ, руководящих партизанских отрядов за особую решительность и умение в операциях по разгрому врага, высокий патриотизм, мужество и самоотверженность. Это единственный орден СССР, на котором надпись сделана не на русском языке.

X. Учрежден в апреле 1930 года. Награждались военнослужащие рядового и начальствующего состава Красной Армии за выдающиеся заслуги в обороне СССР как в боевое, так и в мирное время.

Название ордена	Изображение ордена	Описание
1	К	III
2	В	I

3	Ж	V
4	Е	IV
5	А	II
6	Б	IX
7	И	VI
8	З	X
9	Г	VII
10	А	VIII

12. [6 баллов]

Классическая русская литература – это целый кладезь мелких деталей и черт бытовой жизни Российской империи в XVIII – XIX вв. Однако многие выражения того времени уже непонятны для современного читателя, и задача историка – раскрыть смысл предметов и явлений минувших дней. Ваша задача – объяснить, что означают выделенные слова в приведенных ниже фрагментах из различных литературных произведений.

1. «Честь имею рекомендоваться: Марк Волохов, **15 класса**, состоящий под надзором полиции чиновник, невольный здешнего города гражданин». (И.А. Гончаров).

Ответ:
15 класс – ранг чиновника в "Табели о рангах"

2. «Прощай, немытая Россия, // Страна рабов, страна господ, // И вы, **мундиры голубые**, // И ты, им преданный народ». (М.Ю. Лермонтов).

Ответ:
Мундиры голубые – мундиры чиновников

3. «Куда ни глянешь, **красный ворот** // Как шиш торчит перед тобой…» (М.Ю. Лермонтов).

Ответ:
Военные гос. служащие

4. «Стал он со временем **туз откупной** - // Эксплуататор народного пьянства». (Н.А. Некрасов).

Ответ:

5. «Вагоны шли привычной линией, // Подрагивали и скрипели; // Молчали **жёлтые и синие**; // В **зелёных** плакали и пели». (А.А. Блок).

Ответ:

6. «Он все время путешествия испытывал радость школьника на **вакации**» (Л.Н. Толстой).

Ответ:

13. [6 баллов]

Перед Вами список министров внутренних дел России XIX века в алфавитном порядке, отдельно представлены их характеристики. Соотнесите по номерам фамилии министров и их характеристики, при этом расположив фамилии в том хронологическом порядке, в

котором данные личности занимали пост министра внутренних дел. Ответ оформите в виде таблицы.

Перечень министров внутренних дел:

А) Валуев П.А.
Б) Дурново И.Н.
В) Кочубей В.П.
Г) Лорис-Меликов М.Т.
Д) Толстой Д.А.

Перечень характеристик:

1. Автор публицистического сочинения «Дума русского», в которой резко критиковал состояние государственного управления к концу николаевского правления.
2. Его сочинение «Римский католицизм в России» было занесено Ватиканом в индекс запрещенных книг с аттестацией, которая присваивалась только сочинениям наиболее опасных еретиков.
3. Предпринял меры, укрепившие общинную систему, например, при нем были установлены переделы раз в 12 лет и запрет на выход из общины без согласия «мира».
4. Происходил из украинских казаков. Был англофилом, считал ошибкой заключение Тильзитского мира, после которого ушел в отставку.
5. Считал, что с правильным устройством земств и органов городского самоуправления «связано все наше будущее благосостояние и спокойствие».

Перечень министров внутренних дел (буквенные обозначения, по хронологии)	Номер характеристики
Б	1
В	4
А	2
Д	3
Лорис-Меликов М.Г	5

ЖЕЛАЕМ УДАЧИ!!!

ДО ВСТРЕЧИ ВО ВТОРОМ ТУРЕ!!!

ТИТУЛЬНЫЙ ЛИСТ

РЕГИОНАЛЬНЫЙ ЭТАП ВСЕРОССИЙСКОЙ ОЛИМПИАДЫ ШКОЛЬНИКОВ
КИРОВСКАЯ ОБЛАСТЬ

Заполнять ЗАГЛАВНЫМИ ПЕЧАТНЫМИ БУКВАМИ по образцам

А	Б	В	Г	Д	Е	Ё	Ж	З	И	Й	К	Л	М	Н	О	П	Р	С	Т	У	Ф	Х	Ц	Ч	Ш	Щ	Ъ	Ь	Э	Ю	Я	1	2	3	4	5	6	7	8	9	0	,	-

1. Заполните поля «фамилия», «инициалы», «класс» на титульном листе, если они не заполнены. Заполните поле «класс» на всех листах работы, если оно не заполнено.

ШИФР КОМПЛЕКТА: 9-14

ПРЕДМЕТ: история

ДАТА ПРОВЕДЕНИЯ (ДД.ММ.ГГГГ.): 26.01.2017

ФАМИЛИЯ: З О Н О В

ИНИЦИАЛЫ: Р. В.

КЛАСС: 9 Б

2. По окончании работы пронумеруйте СТРАНИЦЫ (титульный лист не считать) и укажите общее количество использованных страниц.

ОБЩЕЕ КОЛИЧЕСТВО СТРАНИЦ: 5

РЕЗУЛЬТАТЫ ВЫПОЛНЕНИЯ ЗАДАНИЙ В УКАЗАННУЮ ДАТУ ПРОВЕДЕНИЯ (заполняется жюри)

Сумма баллов
43

Председатель жюри:

предмет	история	класс	9	шифр	9-14

Пишите аккуратно и разборчиво, не пишите вне рамки. Не забывайте указывать номер задания, которое Вы выполняете.

Эссе. 11 тема

„Советский Союз одержал победу в смертельной схватке с германским фашизмом, располагавшим ресурсами всех стран Европы (кроме Великобритании), главным образом благодаря самоотверженности и мужеству народов Советского Союза и стабильности советской системы, обеспечившей в короткий срок мощный индустриальный рывок и прорыв в деле повышения культурно-образовательного уровня населения страны".

С. Л. Тихвинский.

Я выбрал для себя тему, связанную с Великой Отечественной войной и, соответственно со Второй Мировой войной. Сразу напишу, что с высказыванием Тихвинского я согласен и в своем эссе с помощью фактов четко выделю причину победы СССР в ВОВ. Тема эта очень актуальна сейчас, когда Советское государство демонизируют ~~и критикуют~~, а его роль в победе над нацизмом и вовсе оспаривают.

Для начала, я рассмотрю положение дел в СССР до войны для того, чтобы доказать стабильность советской системы. Вся власть в СССР была сосредоточена в руках партийного деятеля И. В. Сталина. За годы своего правления Сталин физически устранил всех своих конкурентов (Зиновьева, Бухарина, Каменева, а затем и главного конкурента - Троцкого), была проведена чистка армии (многие неталаментливые командующие обвинены в заговоре с фашистами и репрессированы).

предмет ИСТОРИЯ класс 9 шифр

Пишите аккуратно и разборчиво, не пишите вне рамки. Не забывайте указывать номер задания, которое Вы выполняете.

Именно проведенные репрессии и спасли партию большевиков от раскола, казнь бывшего после смерти Ленина. А отсутствие раскола в партии обеспечило и стабильность внутри страны. ~~Другим важ~~

22 июня 1941-ого года Германия вторгается в СССР, сам Гитлер так отзывается о СССР: „Нам нужно только пнуть дверь и все гнилое строение рухнет". Этой фразой он дает понять, что рассчитывает на сильный коллаборционизм в СССР, однако, этого не случилось. Народы СССР, наоборот самоотвержено встали на защиту Родины. Ярким примером этого является то, что численность коллаборционистских организаций (РОА, УПА, легионы СС и пр.) ~~редко~~ была очень мала (до 100.000 человек), а численность красноармейцев (различных национальностей), среди которых были и добровольцы исчисляется миллионами. Самоотверженность и мужество народов СССР сыграли ~~сво~~ важную роль в разгроме Германии.

Важную роль сыграла и советская промышленность. Напомню, что в годы двух пятилеток (1927–1937 гг.) СССР превратился из аграрной страны в индустриальную. Конверсия и эвакуация ~~производства~~ (во время войны) создали резкий подъем в советском производстве (в годы войны). За год войны производство танков и самолетов увеличилось в несколько раз (статистические данные). В тылу также трудилась многомиллионная армия рабочих, готовая трудиться днями, ради Победы.

предмет История класс 9 шифр

Пишите аккуратно и разборчиво, не пишите вне рамки. Не забывайте указывать номер задания, которое Вы выполняете.

Таким образом, можно выделить следующие причины победы СССР в войне:

- самоотверженность и мужество советских людей.
- отсутствие внутренних распрей в СССР.
- превосходство советской промышленности. (Немецкая промышленность хоть в чем-то и превосходила Советскую, но эвакуация и конверсия промышленности, а также продление рабочего дня позволили Советам догнать и перегнать немцев в производстве), ~~а также~~.
- Хорошие командующие и мудрое руководство.

Именно всё это обеспечило стабильность системы Сталинского СССР. Таким образом я выделил причины победы СССР в войне, которые по большей части совпадают с причинами у Тихвинского.

5	3	3	10	5	0	Верещаги
5	3	3	10	5	0	Сморкалова

26б

предмет история | класс 9 | шифр 9-14

Пишите аккуратно и разборчиво, не пишите вне рамки. Не забывайте указывать номер задания, которое Вы выполняете.

Проект

1. Первый период относится к правлению Ивана III, когда был издан его судебник и при котором Москва окончательно стала политическим и духовным центром России, к ней окончательно к Москве был присоединен Новгород.
Второй период относится к правлению Ивана IV Грозного, когда была учреждена опричнина и создан новый судебник.
В обоих документах говорится об отдельном Белозерском уезде и об административно-судебной власти в нем, в частности о местном самоуправлении.

2. В первом тексте говорится о полномочиях наместников, тиунов и доводчиков, ОТК.
Во втором идет обращение Царя с требованием ловить местных разбойников, их судить и приговор исполнять.

3. Примерная численность аппарата управления в уезде составила 13 человек + сошки („держати в городе и во станех два тиуна да десять доводчиков..." первый текст, 3)
В первой грамоте наместник назначается царем, а затем назначает на места в городе тиунов и во станах/волостях доводчиков своих. Также суды (имеет право убирать через год). Также есть выборные из уезда должностные лица - сошки. Изменения в местном самоуправлении происхо-

предмет ИСТОРИЯ класс 9 шифр

Пишите аккуратно и разборчиво, не пишите вне рамки. Не забывайте указывать номер задания, которое Вы выполняете.

дали из-за необходимости централизации власти вокруг Москвы, которая в дальнейшем будет назначать должностных лица в уезды. Так, уже при Иване IV в уезды стали

4) отправлять объезчиков, они из Москвы, однако, местные должны назначить себе в помощь управляющих

4.) В обоих грамотах говорится о том, что местная власть имеет право компенсировать ущерб („и наместники велят на виноватом истцово доправити, а тот разбойник ... в продаже и в казни..."). Во второй грамоте говорится о том, что жители уезда должны назначать людей на должности в волости („которые были бы пригожи..."), судить их и пытать. Во второй грамоте также говорится о том, что если местное самоуправление не будет судить и наказывать разбойников „то быть им в продаже..."

5.) В целом местное самоуправление в Белозерье несильно изменилось, изменилась судебная система, а также система назначения, Белозерцы стали сами себе учинять себе для сбора и управления самоуправленцев, но не сделав этого, к ним из Москвы для сбора отправились объезчики.

1	2	3	4	5	Итого
3	1	8	4	1	17

Машковцев

Краева